Name : _____ Datum : _____

PAPILUMO / Lösungen

Strichlisten bis 20 lesen

Zähle die Striche in jeder Liste. Schreibe die Zahl ins Kästchen.



Malo zählt die Besucher im Park. Hilf ihm, seine Listen zu lesen!

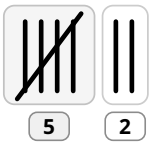

→ **5 + 2 = 7**

Ein Beispiel mit Malo:

Der fünfte Strich kreuzt die ersten vier. Eine volle Gruppe bedeutet 5.

1.  ▷ **3**

2.  ▷ **8**

3.  ▷ **5**

4.  ▷ **12**

5.  ▷ **6**

6.  ▷ **15**

7.  ▷ **11**

8.  ▷ **19**

9.  ▷ **10**

10.  ▷ **17**

11.  ▷ **14**

12.  ▷ **20**

In jedem Kästchen steht die Anzahl der dargestellten Besucher.

Ein schräger Strich zählt genauso als einer wie ein senkrechter Strich.