Name : _____ Datum : _____

PAPILUMO / Lösungen

Zahlen bis 99 vergleichen mit Romy

Vergleiche die Zahlen. Schreibe <, > oder = in jedes Kästchen.



Romy, der Fuchs, gestaltet Gartenschilder. Hilf beim Zahlenvergleich!

Vergleiche zuerst die Zehner.

41 > 38

4 Zehner > 3 Zehner

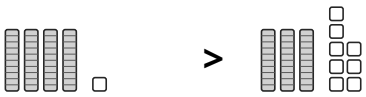

Gleiche Zehner? Vergleiche die Einer.

56 < 59

Je 5 Zehner: 6 Einer < 9 Einer

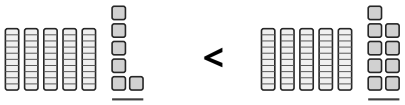

< **Die Spitze zeigt zur kleineren Zahl.**

Gleiche Zahlen: 77 = 77



1. Ergänze die zwölf Schilder.

1	26	<	42	2	73	>	68
3	55	=	55	4	47	<	49
5	81	>	79	6	60	=	60
7	92	>	29	8	34	<	38
9	10	<	19	10	99	>	90
11	84	=	84	12	50	<	51

2. Ergänze eine passende Einerziffer.

A **4 3 < 46**

B **7 8 > 75**

Beispiellösungen: Auch andere Einerziffern passen.