Name : _____ Datum : _____

PAPILUMO / 6–7 Jahre • LÖSUNGEN

In Zweierschritten bis 20 zählen

Zähle die Socken paarweise und ergänze die Zahlenfolgen.



„Quak! Ich bin Bibi, der Teichfrosch. Ich hüpfe in Zweierschritten über die Seerosen und zähle jedes Paar: +2 pro Sprung!“

Beispiel: 3 Paare = 6 Socken

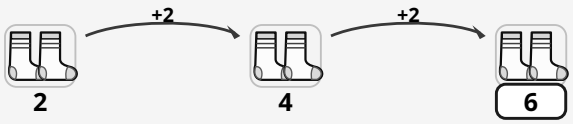

= **6**

1. Zähle in Zweierschritten. Wie viele Socken sind es?

A 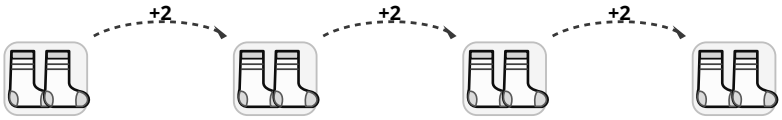

= **8**

B 

= **14**

C 

= **20**

2. Zähle in Zweierschritten weiter. Ergänze die Zahlen.

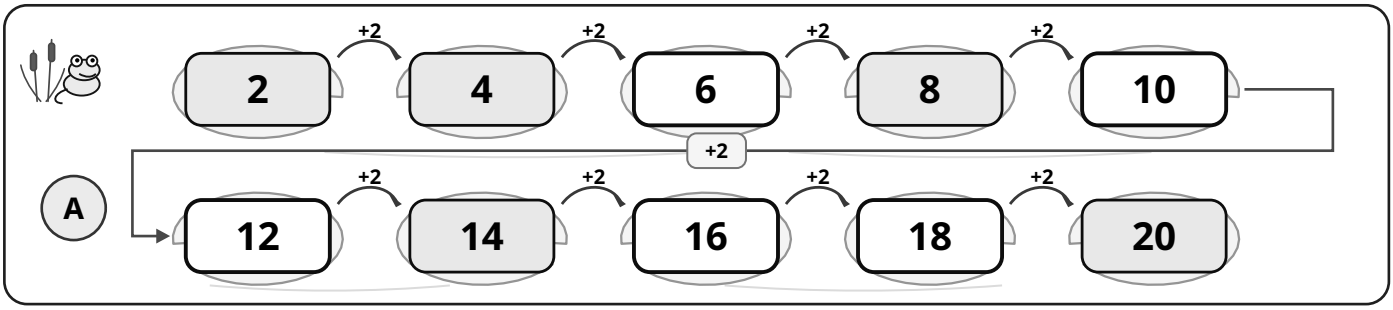

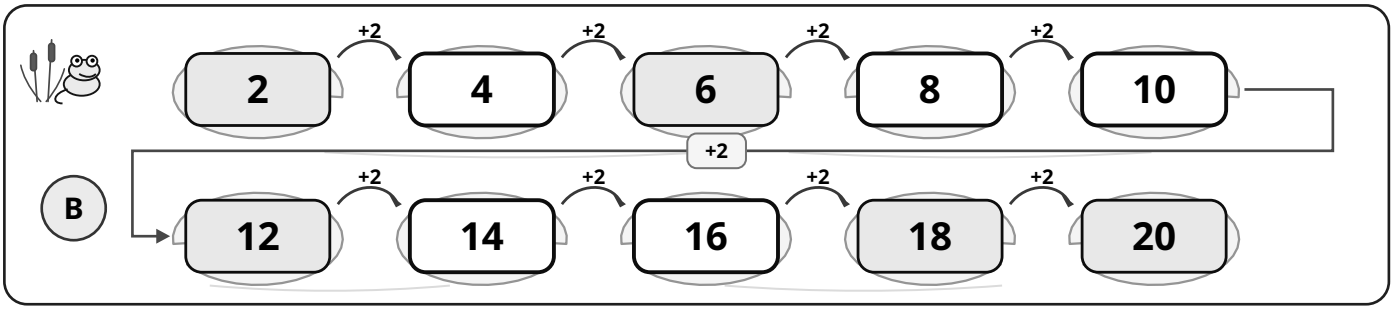

Bibis Tipp: Zeige bei jedem +2-Sprung auf ein ganzes Paar oder Seerosenblatt. Jede Zahl endet auf 0, 2, 4, 6 oder 8!