Name : _____ Datum : _____

PAPILUMO | 1. Klasse (6–7 Jahre) · Lösungen

Strichlisten zeichnen & zählen

Zähle die Dinge in jedem Glas, zeichne Strichlisten in Fünfergruppen, schreibe die Gesamtzahl und ergänze die Minitabelle.



Am Flussufer stapelt Biber Leo kleine Holzstäbe immer in Bündeln zu fünf. Hilf ihm, alle Gläser genau in seine Strichliste einzutragen!

Beispiel: 6 Sterne -> 1 durchgestrichenes Fünferbündel + 1 Einzelstrich = 6.

☆ ☆ ☆ ☆ ☆ ☆ → 𝍸 | = 6

1. Zähle jedes Glas, zeichne Strichlisten in Fünfergruppen und schreibe die Zahl

Sammelglas	Strichliste (Fünfergruppen)	Anzahl
1 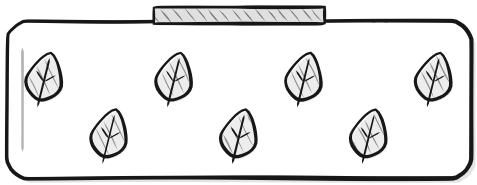	𝍸 ||	7
2 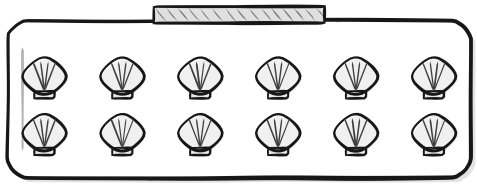	𝍸 𝍸 ||	12
3 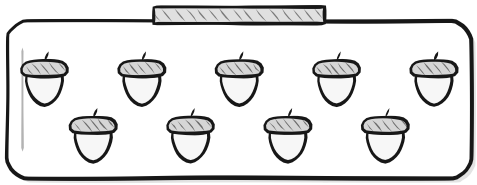	𝍸 ||||	9
4 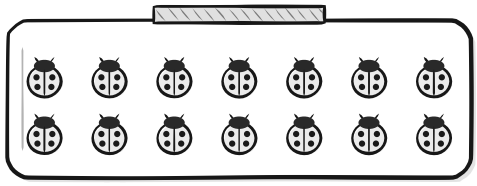	𝍸 𝍸 ||||	14

2. Minitabelle Formen: Lies die Strichlisten und trage die zwei fehlenden Anzahlen ein

Form	Strichliste (Fünfergruppen)	Anzahl
Dreieck	𝍸 |||	8
Quadrat	𝍸 𝍸 |	11

Tipp: Zeichne zuerst vier senkrechte Striche mit kleinem Abstand und streiche sie dann mit dem fünften Schrägstrich zum Fünferpaket durch.