Name : _____ Datum : _____

PAPILUMO / 2. Klasse (7–8 Jahre) • Lösungen

Zentimeter messen und zeichnen

Lies die Länge jedes bei 0 angelegten Gegenstands am cm-Lineal ab und zeichne danach die drei Strecken ab dem Startpunkt 0 cm.



In seiner Holzwerkstatt prüft Tischler-Biber Leo jedes Maß genau mit dem Lineal. Hilf ihm beim Messen der fünf Dinge und beim Zeichnen!

Beispiel: Der Wachsmalstift beginnt genau bei 0 und endet bei 5; er ist 5 cm lang.

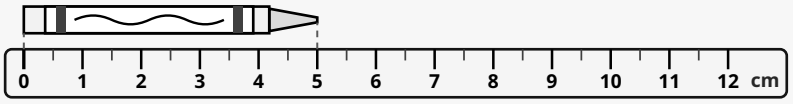

5 cm

1. Lies die Länge jedes bei 0 angelegten Gegenstands ab und trage sie in cm ein

1

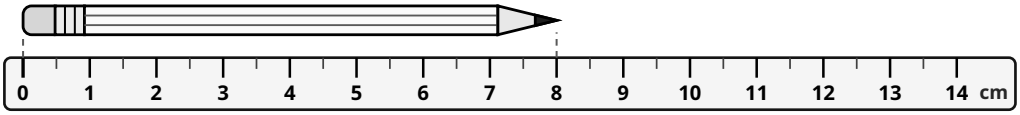

8 cm

2

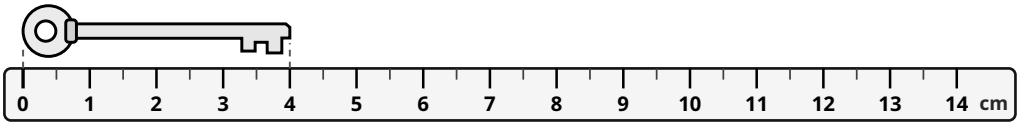

4 cm

3

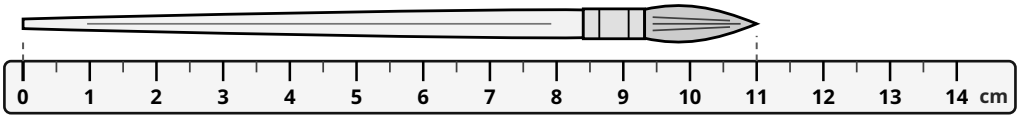

11 cm

4

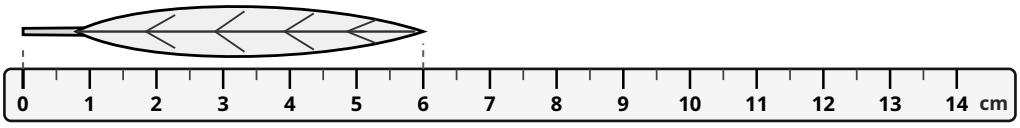

6 cm

5

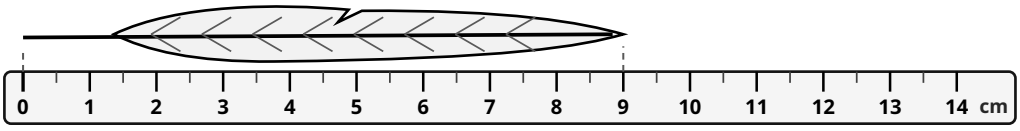

9 cm

2. Zeichne jede Strecke ab dem Startpunkt 0 cm mithilfe des Lineals darunter

A **3 cm**

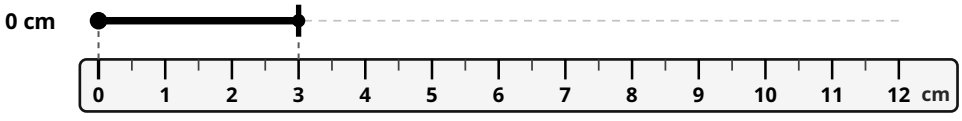

B **7 cm**

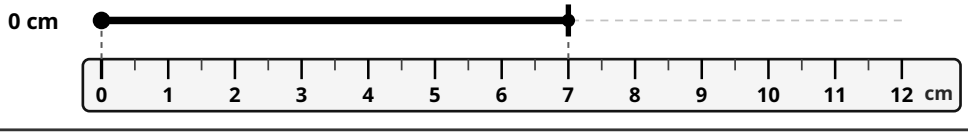

C **10 cm**

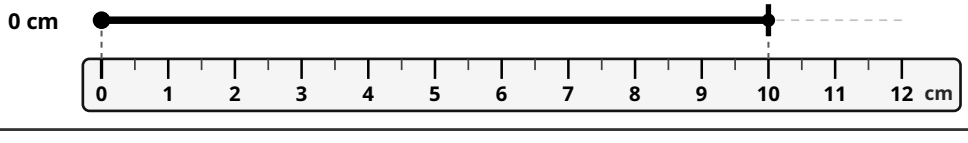

Leos Tipp: Lege den Anfang immer genau an den 0-Strich an, niemals einfach an die äußere Kante des Lineals!