Name : _____ Datum : _____

**PAPILUMO / 2. Klasse (7–8 Jahre)**

# Zentimeter messen und zeichnen

Lies die Länge jedes bei 0 angelegten Gegenstands am cm-Lineal ab und zeichne danach die drei Strecken ab dem Startpunkt 0 cm.



**In seiner Holzwerkstatt prüft Tischler-Biber Leo jedes Maß genau mit dem Lineal. Hilf ihm beim Messen der fünf Dinge und beim Zeichnen!**

**Beispiel: Der Wachsmalstift beginnt genau bei 0 und endet bei 5; er ist 5 cm lang.**

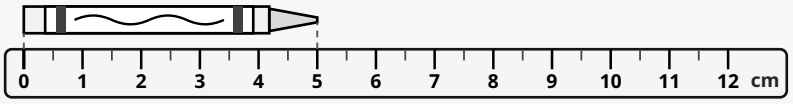


**5 cm**

## 1. Lies die Länge jedes bei 0 angelegten Gegenstands ab und trage sie in cm ein

**1**

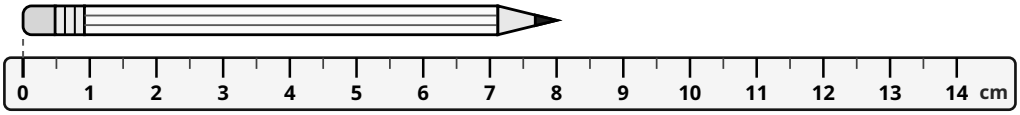


_____ cm

**2**

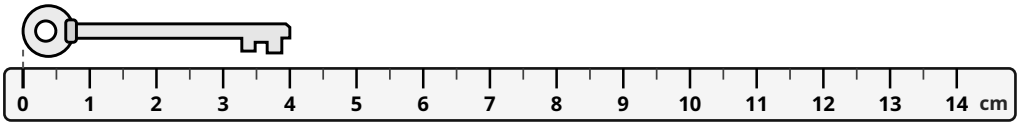


_____ cm

**3**

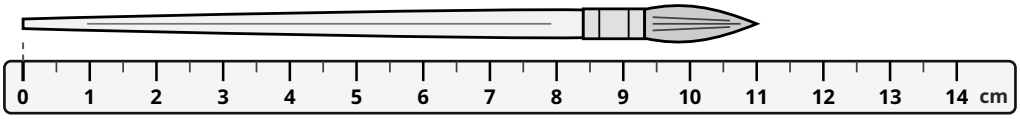


_____ cm

**4**

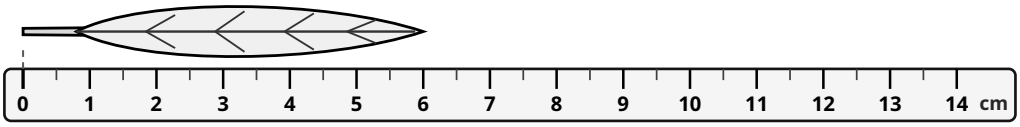


_____ cm

**5**

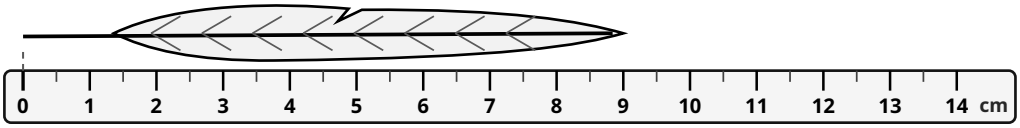


_____ cm

## 2. Zeichne jede Strecke ab dem Startpunkt 0 cm mithilfe des Lineals darunter

**A** **3 cm**

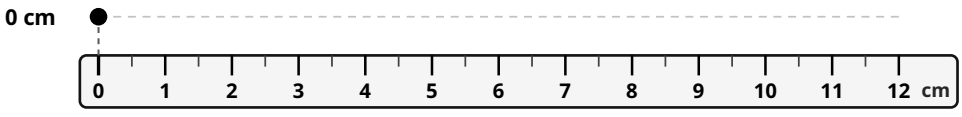


**B** **7 cm**

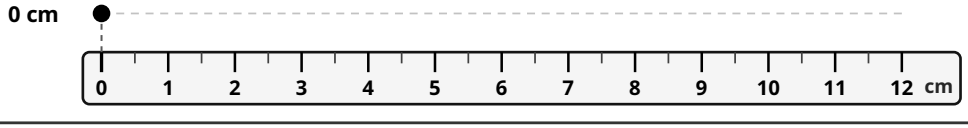


**C** **10 cm**

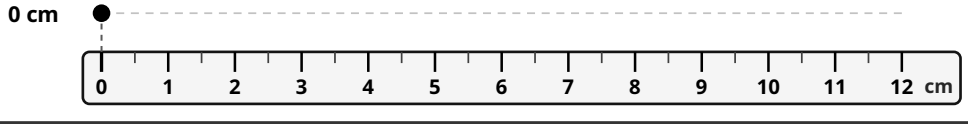


Leos Tipp: Lege den Anfang immer genau an den 0-Strich an, niemals einfach an die äußere Kante des Lineals!