Name : _____ Datum : _____

PAPILUMO / Vorschule (5–6 Jahre) • Lösungen

Schwerer oder leichter? Die Waage

Schau genau, zu welcher Seite die Balkenwaage kippt, und kreise das gesuchte Bild ein.



Leo der kleine Lemur wiegt an seinem Marktstand frische Sachen!
Die tiefere Schale ist schwerer, die höhere Schale ist leichter.

Beispiel: Die Ananas zieht die Schale nach unten.



- **Schwerer: Schale unten**
- **Leichter: Schale oben**

Betrachte jede Waage und kreise das passende Bild ein

1



Kreise das SCHWERERE ein

2



Kreise das LEICHTERE ein

3



Kreise das LEICHTERE ein

4



Kreise das SCHWERERE ein

5



Kreise das SCHWERERE ein

6



Kreise das LEICHTERE ein

Tipp: Folge zuerst dem schiefen Waagebalken — die tiefere Schale trägt immer das schwerere Teil.