Name : _____ Datum : _____

PAPILUMO / 4. Klasse (9–10 Jahre)

Vier Quadranten im Koordinatensystem (−4 bis +4)

Lies zuerst die Koordinaten (x; y) der Punkte A bis D ab und zeichne danach E bis H genau auf den Gitterkreuzen ein.



Auf geht's! Gehe auf der x-Achse nach links oder rechts, dann auf y nach oben oder unten!

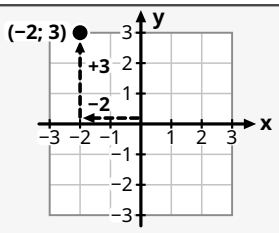

Beispiel: (−2; 3) eintragen

1. x = −2: Starte bei (0; 0) und gehe 2 nach links.

2. y = +3: Steige danach 3 Einheiten nach oben.

3. Markiere (−2; 3) im II. Quadranten!

Zias Plan mit vier Quadranten (−4 bis +4 auf x und y)

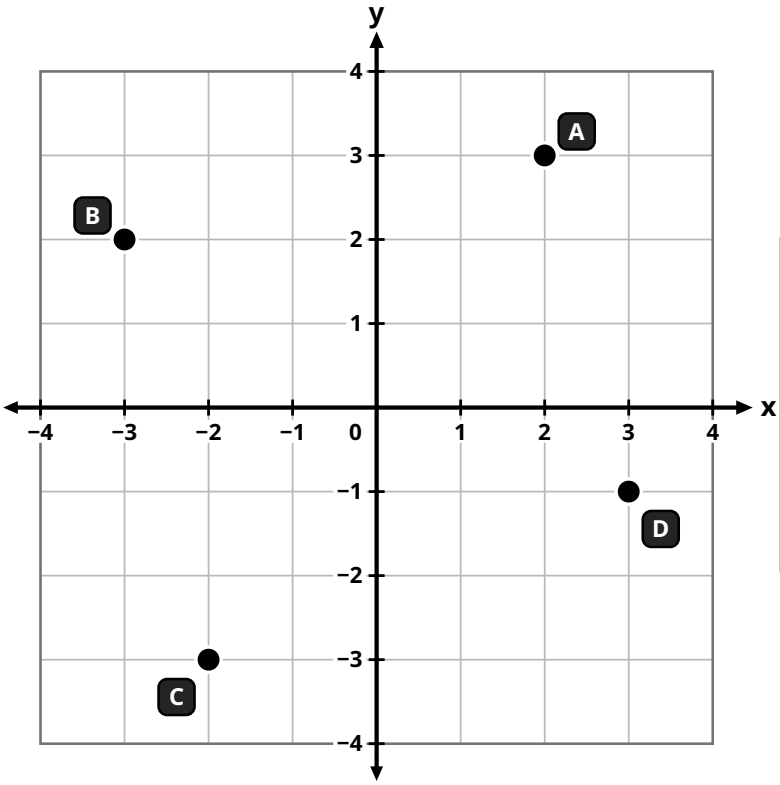

Kartenlegende

- A–D: Koordinaten ablesen
- E–H: Sterne einzeichnen
- (0; 0): Ursprung

Vorzeichen (x; y)

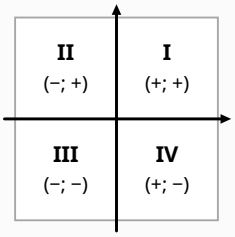

1. Lies die Koordinaten von A, B, C und D ab

A = (____ ; ____)

B = (____ ; ____)

C = (____ ; ____)

D = (____ ; ____)

2. Zeichne E, F, G und H ins Gitter ein

- ☆ E (−4; 1) ☐
- ☆ F (1; −4) ☐
- ☆ G (−1; 4) ☐
- ☆ H (4; 2) ☐

Zias Tipp: Minus auf der x-Achse geht nach links; Minus auf der y-Achse geht nach unten.