Name : _____ Datum : _____

PAPILUMO / 1. Klasse (6–7 Jahre) • Lösungen

Zählen über 100: von 95 bis 120

Ergänze die fehlenden Zahlen in jedem Zug, zähle dann Hunderterplatte, Zehnerstangen und Einerwürfel und notiere die Zahl. Zug-Hase Timo fährt mit seinem Zug über die 99 hinaus: 10 Zehnerstangen ergeben eine Hunderterplatte, dann geht die Fahrt weiter!



Beispiel: Von 99 zur 100 und sicher weiterzählen

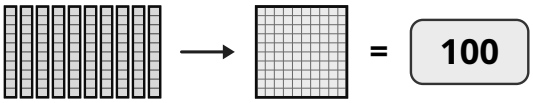

10 Zehnerstangen = 1 Hunderterplatte = 100

Übergang: 99 → 100 → 101

1. Trage die fehlenden Zahlen in die leeren Zugwaggons über 100 ein (1–4)

1

96	97	98	99	100	101	102

2

104	105	106	107	108	109	110

3

112	113	114	115	116	117	118

4

98	99	100	101	102	103	104

2. Zähle die Hunderterplatte, Zehnerstangen und Einerwürfel und schreibe die Zahl (5–7)

5

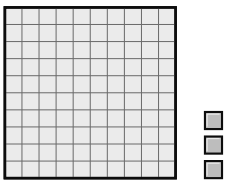

Zahl: 103

6

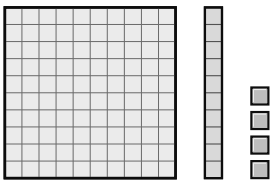

Zahl: 114

7

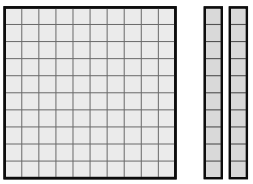

Zahl: 120

Timos Tipp: Nach 99 kommt 100, danach 101, 102… Eine volle 10×10-Platte steht immer für genau 100 Einer.