Name : _____ Datum : _____

PAPILUMO | 3. Klasse · Lösung

Symmetrie an der 45°-Diagonale auf Kästchenpapier

Betrachte jede kräftig gezeichnete Hälfte genau und ergänze das exakte Spiegelbild auf der anderen Seite der gestrichelten Achse.



Milo kippt seinen Taschenspiegel auf 45 Grad! Achte gut darauf, wie waagerechte Kästchenschritte an der Schrägen senkrecht werden.

Beispiel (4 × 4 Gitter)

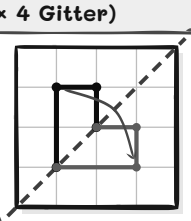

1. Stufenpfeil (Achse /)

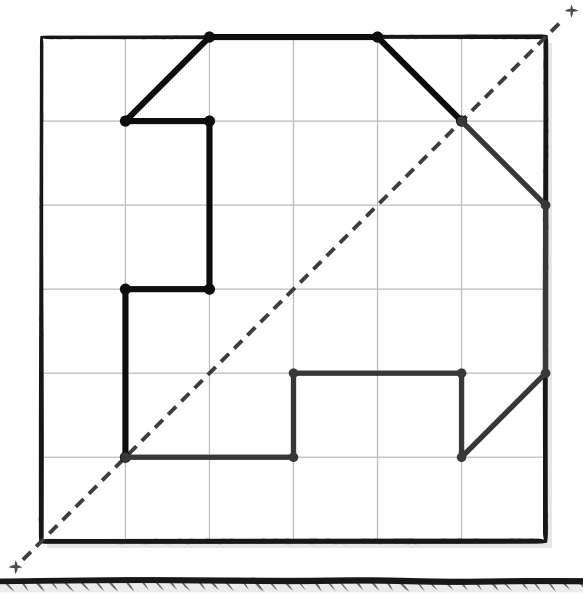

2. Schmetterlingsflügel (Achse /)

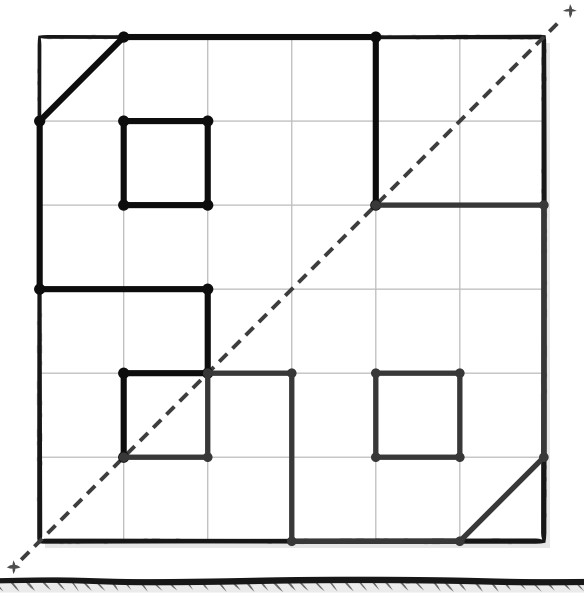

3. Kiefernblatt-Zacken (Achse \)

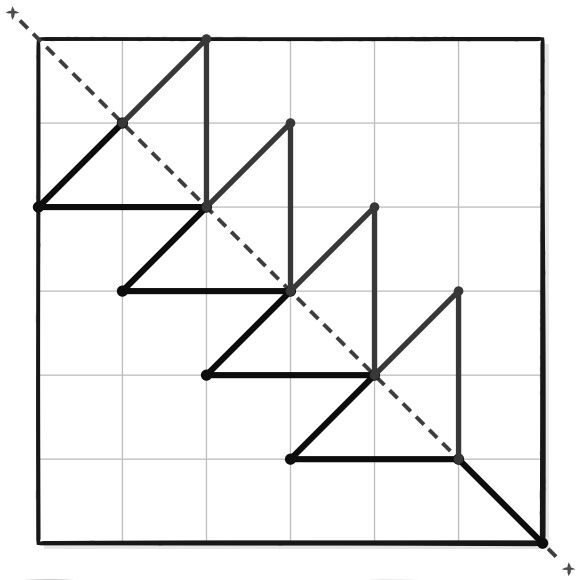

4. Kaleidoskop-Stern (Achse \)

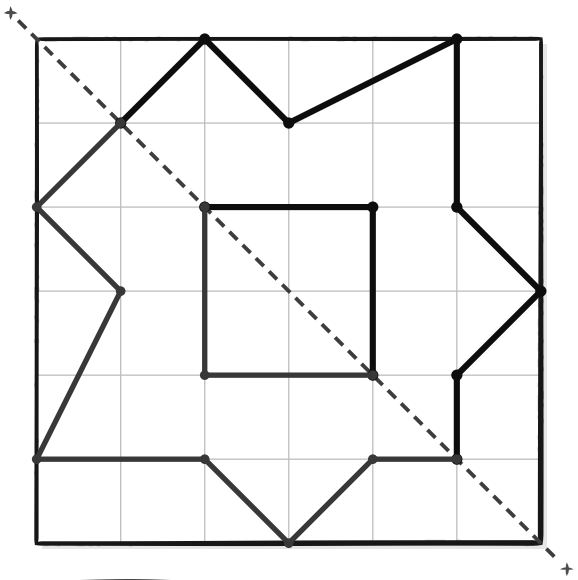

Milos Tipp: Drehe das Blatt kurz so, dass die gestrichelte Achse gerade nach oben zeigt, um einzelne Ecken leicht zu prüfen!