Nombre : _____ Fecha : _____

PAPILUMO / Soluciones

Lee las marcas de recuento hasta 20

Cuenta las marcas de cada registro. Escribe el número en la casilla.



Malo cuenta las visitas al parque. ¡Ayúdale a leer sus registros!

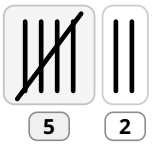

→ **5 + 2 = 7**

Un ejemplo con Malo:

La quinta marca cruza las cuatro primeras. Un grupo completo vale 5.

1.  ▷ **3**

2.  ▷ **8**

3.  ▷ **5**

4.  ▷ **12**

5.  ▷ **6**

6.  ▷ **15**

7.  ▷ **11**

8.  ▷ **19**

9.  ▷ **10**

10.  ▷ **17**

11.  ▷ **14**

12.  ▷ **20**

Cada casilla indica cuántas visitas representan las marcas.

La marca inclinada cuenta como una, igual que cada marca vertical.