Nombre : _____ Fecha : _____

PAPILUMO / 1.º de Primaria (6–7 años)

Restas en la recta numérica hasta 10

Empieza en el punto negro. Dibuja saltos a la izquierda y escribe el resultado.



«¡Hola, soy Tito el saltamontes! Salgo del punto negro y salto a la izquierda por mi ramita para restar.»

Ejemplo: empieza en 5 y retrocede 2 saltos.

5 - 2 = **3**

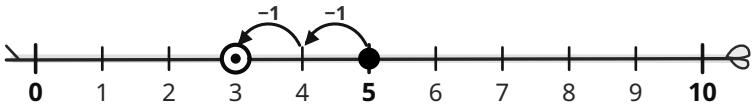

2 saltos a la izquierda desde el 5: Tito llega al 3.

1. Resuelve las seis restas en las ramitas de Tito:

1 **3 - 1 =** ____

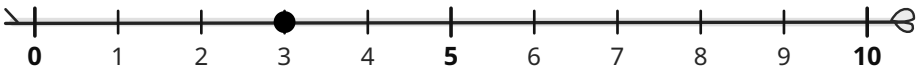

2 **6 - 2 =** ____

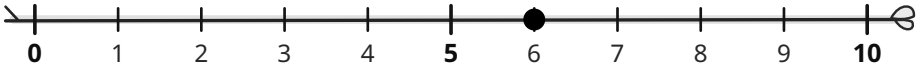

3 **8 - 3 =** ____

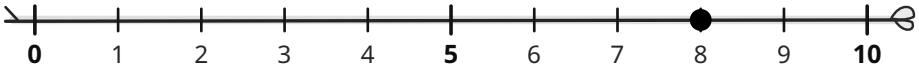

4 **9 - 4 =** ____

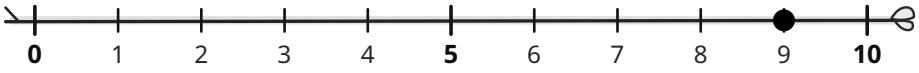

5 **10 - 6 =** ____

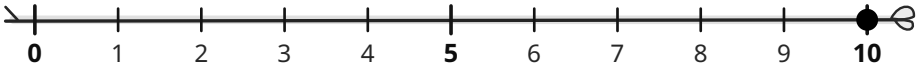

6 **4 - 4 =** ____

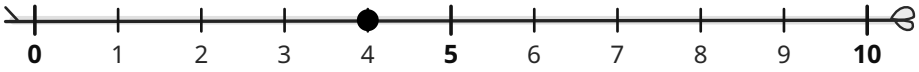

Consejo de Tito: cuenta cada salto a la izquierda sin contar el punto de partida y párate tras los saltos indicados.