Nombre : _____ Fecha : _____

PAPILUMO / 4.º de Primaria (9–10 años) • Soluciones

Coordenadas cartesianas en el cuadrante (0–6)

Escribe las coordenadas (x, y) de los cinco tesoros en el mapa, luego sitúa A, B, C y D y únelos para revelar la figura.



Con su catalejo en mano, el pirata Pico explora una isla del tesoro cuadriculada. ¡Ayúdalo a anotar cada coordenada y trazar la figura oculta!

Ejemplo: sal del 0, ve a la derecha a x = 1 y sube a y = 5 -> ancla en (1, 5).

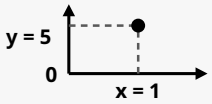

⚓ = (1 , 5)

1. Anota las coordenadas (x, y) de los cinco símbolos del mapa

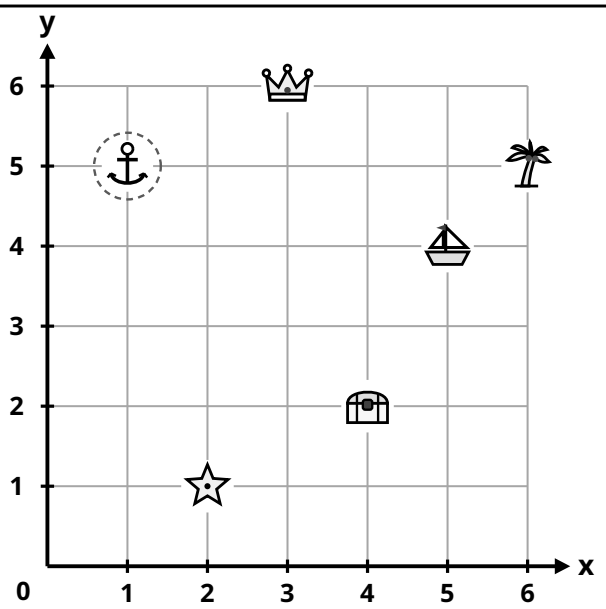

Ejemplo	Ancla	(1 , 5)
1	Estrella	(2 , 1)
2	Barco	(5 , 4)
3	Cofre	(4 , 2)
4	Palmera	(6 , 5)
5	Corona	(3 , 6)

2. Sitúa A, B, C y D, une A -> B -> C -> D -> A y escribe el nombre de la figura

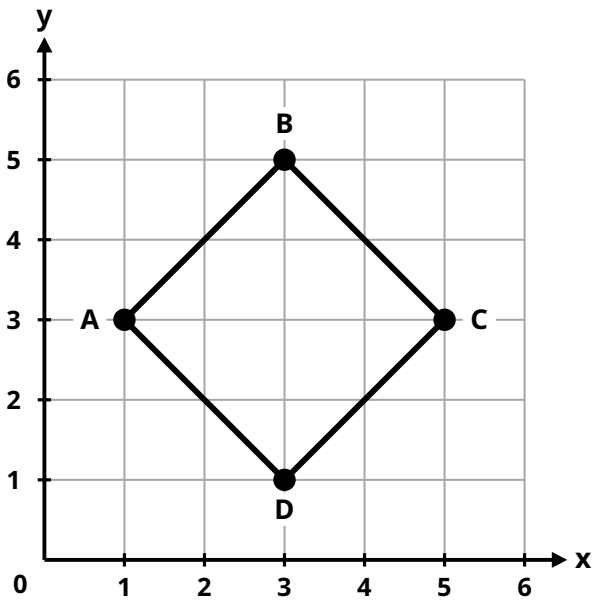

Puntos para situar en el mapa:

- A (1, 3) ☑
- B (3, 5) ☑
- C (5, 3) ☑
- D (3, 1) ☑

Une en orden: A -> B -> C -> D -> A

Figura descubierta:

rombo

Truco de Pico: lee primero la coordenada x en el eje horizontal (hacia la derecha) y después la y en el vertical (hacia arriba).