Nombre : _____ Fecha : _____

PAPILUMO / 1.º de Primaria (6–7 años) • Soluciones

Sumas en la recta numérica hasta 20

Sal desde el punto negro, dibuja los saltos hacia la derecha y escribe la suma en la casilla.



«¡Croac! Soy Bibi la rana saltarina. ¡Ayúdame a dar saltos hacia la derecha hasta el resultado correcto!»

Ejemplo resuelto: 8 + 5 = 13 (sal del 8 y da 5 saltos hacia la derecha)

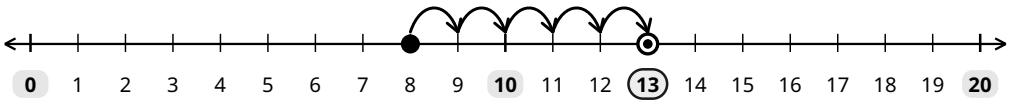

1. Dibuja los saltos desde el punto negro y escribe cada suma

1 **7 + 6 = 13**

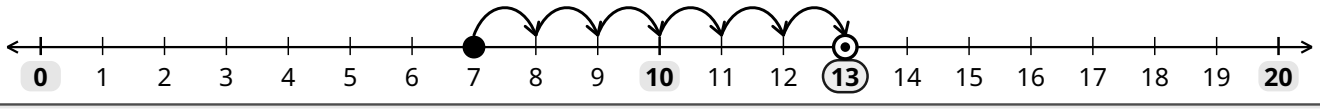

2 **9 + 5 = 14**

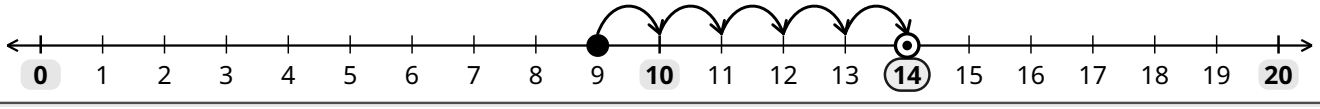

3 **6 + 8 = 14**

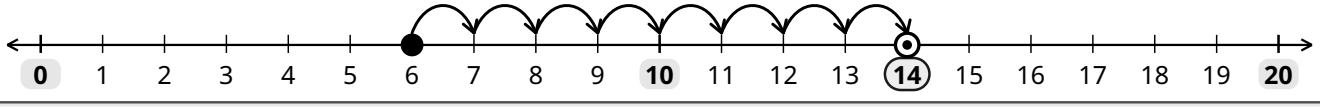

4 **11 + 7 = 18**

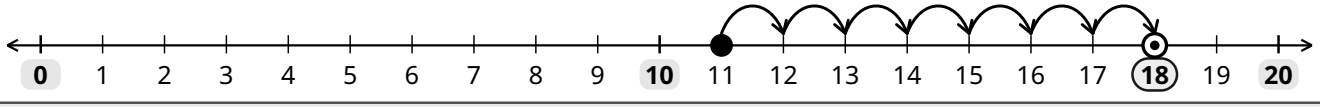

5 **8 + 9 = 17**

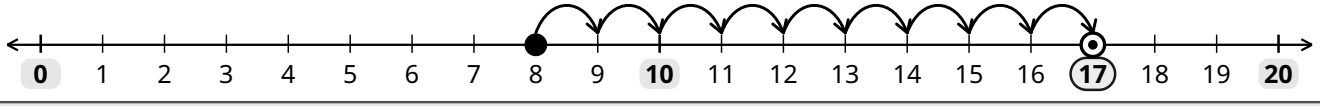

6 **12 + 6 = 18**

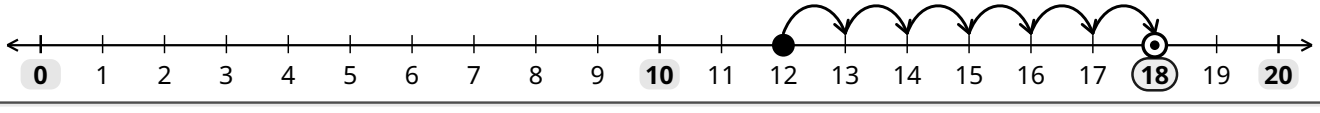

- Consejo de Bibi: el punto negro señala la salida; cuenta cada salto al llegar a la marca siguiente hacia la derecha.