Nombre : _____ Fecha : _____

PAPILUMO / LAS INSIGNIAS DE ARI - SOLUCIONES

Cuenta y colorea el gráfico

Cuenta cada tipo de insignia. Colorea una casilla por insignia desde abajo.



Ari ordena sus insignias. ¡Ayuda al mapache a llenar el gráfico!

Ejemplo:



2 círculos = 2 casillas

1 casilla = 1 insignia

Las insignias de Ari



Mi gráfico de columnas

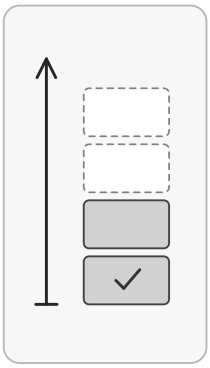

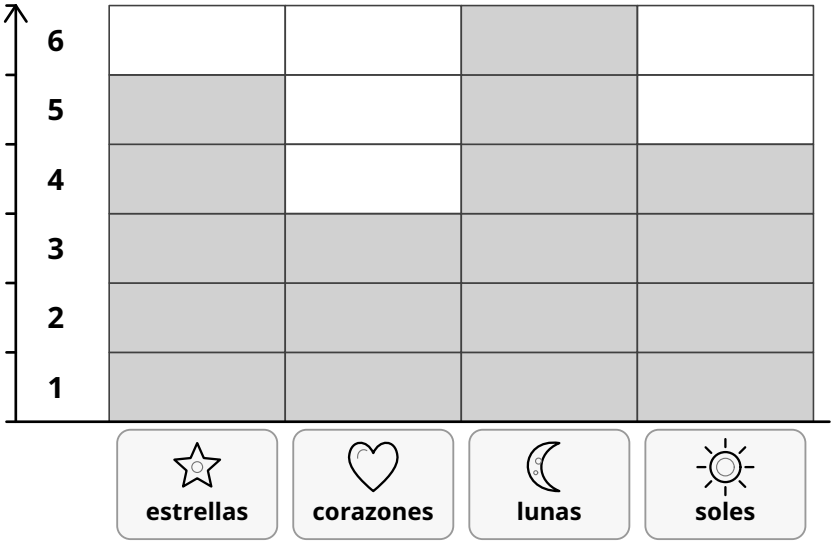



1. Rodea la insignia de la que hay más.



2. Rodea la insignia de la que hay menos.



3. ¿Cuántos soles hay? Escribe el número. **4**

Empieza abajo. No dejes casillas vacías bajo las que colorees.