Nombre : _____ Fecha : _____

PAPILUMO / LOS TRENES DE LOU - SOLUCIONES

Los trenes de Lou: ¿qué salto?

Rodea +2, +5 o +10. Completa los tres vagones vacíos.



¡Ayuda a Lou a preparar los seis trenes de números!

Ejemplo: 2, 4, 6... sumamos 2; el siguiente número es 8.



1. **+2** +5 +10



2. +2 **+5** +10



3. +2 +5 **+10**



4. +2 **+5** +10



5. **+2** +5 +10



6. +2 +5 **+10**



Lee cada tren de izquierda a derecha. Mantén el mismo salto.

Comprueba tu regla con los tres números que ya están escritos.