Nome : _____ Data : _____

PAPILUMO / Classe terza • Soluzioni

Grafico a barre (scala 5): gli animali del parco

Osserva la scala di 5 in 5 sull’asse verticale, disegna la barra delle volpi fino a 20 e rispondi alle cinque domande.



Sacha lo scoiattolo custodisce il grande parco alberato e registra tutti gli animali avvistati questa settimana. Aiutalo a completare il grafico!

Esempio svolto: come funziona la scala 5 (1 tacca = 5 animali)

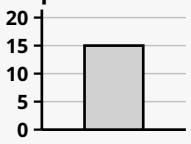

3 × 5 = 15

3 passi da 5 = 15 animali

Ogni spazio verticale vale sempre 5.

1. Leggi le quattro barre pronte e disegna la barra delle volpi (20)

Animali osservati nel parco

Numero di animali

Barra da disegnare sul grafico:
Volpi = 20

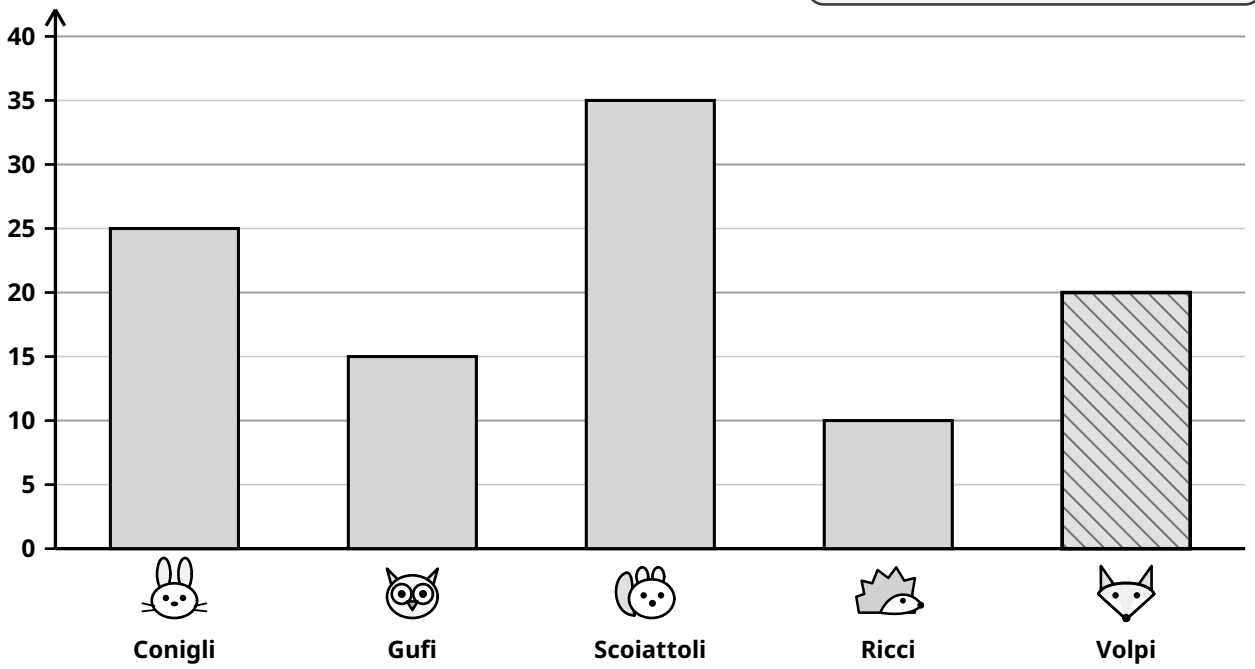

2. Usa il grafico completo per rispondere alle cinque domande

1	Quale animale è stato osservato più volte?	**Scoiattoli**
2	Quanti conigli e gufi sono stati visti in totale?	**40**
3	Quanti conigli in più rispetto ai ricci?	**15**
4	Quanti animali in tutto (tutte e 5 le specie)?	**105**
5	Qual è la differenza tra il più visto e il meno visto?	**25**

Consiglio di Sacha: conta sempre di 5 in 5 sull’asse verticale (0, 5, 10, 15, 20…) e segui le righe guida orizzontali fino a sinistra.