Nome : _____ Data : _____

PAPILUMO / Classe prima (6–7 anni) • Soluzioni

Contare da 95 a 120: oltre il 100

Completa i numeri mancanti sui vagoni di ogni treno, poi conta piastre da 100, aste da 10 e cubetti e scrivi il numero. Timo il coniglio ferroviere guida il treno oltre il 99: 10 decine formano una piastra da 100 e il viaggio prosegue!

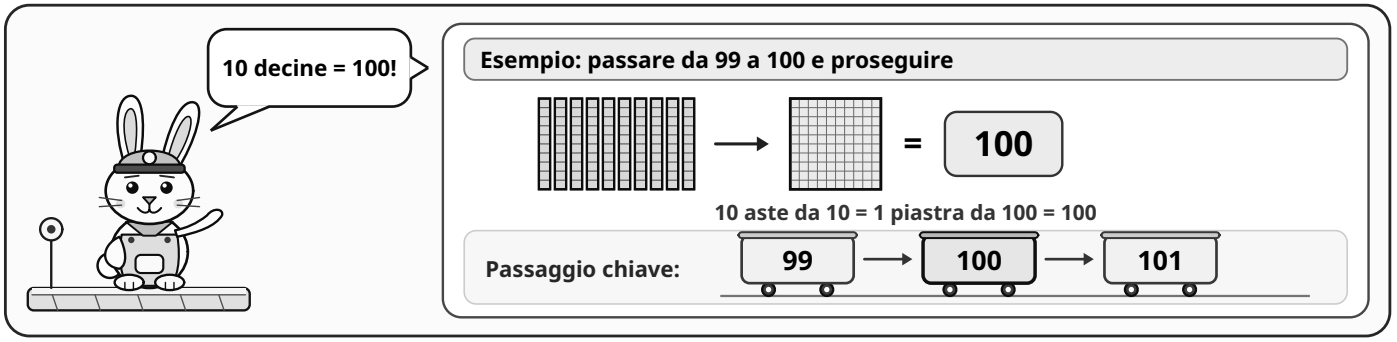

1. Completa i numeri mancanti nei vagoni di ciascun treno oltre il 100 (1–4)

1 96 | 97 | 98 | 99 | 100 | 101 | 102

2 104 | 105 | 106 | 107 | 108 | 109 | 110

3 112 | 113 | 114 | 115 | 116 | 117 | 118

4 98 | 99 | 100 | 101 | 102 | 103 | 104

2. Conta i blocchi base 10 (centinaio, decine, unità) e scrivi il numero (5–7)

5

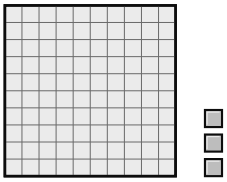

Numero: 103

6

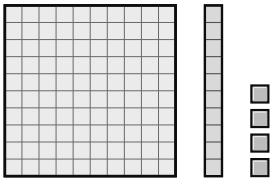

Numero: 114

7

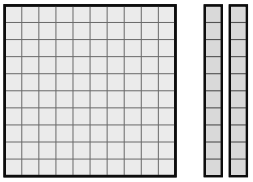

Numero: 120

Consiglio di Timo: dopo 99 arriva 100, poi 101, 102… Una piastra quadrata 10×10 vale sempre 100 unità.