Nome : _____ Data : _____

PAPILUMO / Classe prima (6–7 anni) • SOLUZIONI

Contare per 10 fino a 100

Conta per 10. Scrivi i totali, poi completa le sequenze.



Ciao, sono Tao! Ogni barra ha 10 quadratini. Conta per decine e vola con me di nuvola in nuvola fino a 100!

Una barra contiene 10 quadratini: rappresenta una decina.



1. Conta i quadratini per decine. Scrivi il totale.

1

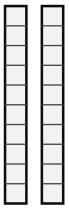

Totale: 20

2

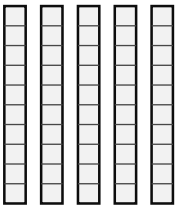

Totale: 50

3

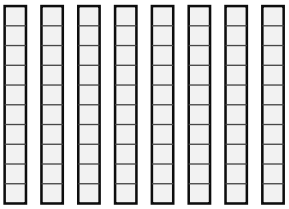

Totale: 80

2. Aggiungi 10 a ogni freccia. Completa le caselle vuote.

10 +10 20 +10 **30** +10 **40** +10 **50** +10 **60**

30 +10 **40** +10 **50** +10 60 +10 **70** +10 **80**

50 +10 60 +10 **70** +10 **80** +10 **90** +10 **100**

20 +10 **30** +10 40 +10 **50** +10 **60** +10 **70**

✦ Ogni barra vale 10. Ogni freccia nelle sequenze aggiunge una decina.