Nome : _____ Data : _____

PAPILUMO / Classe seconda · Gruppi uguali

Problemi per la festa di Nino

Leggi ogni problema. Scrivi la moltiplicazione e completa la risposta.



Nino la volpe prepara una festa. Aiutalo a contare ciò che serve!

Esempio: 2 sacchetti con 3 biglie ciascuno

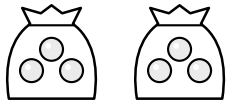

→ **2 × 3 = 6**

6 biglie in tutto

! **Ogni disegno mostra un solo gruppo, non tutta la raccolta.**

1

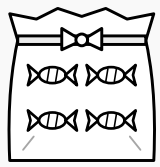

Nino riempie 3 sacchetti. In ogni sacchetto ci sono 4 caramelle. Quante caramelle ci sono in tutto?

Calcolo ☐ × ☐ = ☐ → **In tutto** ☐ **caramelle**

2

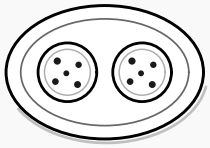

Prepara 4 piatti. Su ogni piatto ci sono 2 biscotti. Quanti biscotti ci sono in tutto?

Calcolo ☐ × ☐ = ☐ → **In tutto** ☐ **biscotti**

3



Appende 2 ghirlande. Ogni ghirlanda ha 5 stelle. Quante stelle ci sono in tutto?

Calcolo ☐ × ☐ = ☐ → **In tutto** ☐ **stelle**

4



Riempie 5 vasi. In ogni vaso ci sono 3 fiori. Quanti fiori ci sono in tutto?

Calcolo ☐ × ☐ = ☐ → **In tutto** ☐ **fiori**