Nome : _____ Data : _____

PAPILUMO | 3.º ano (8–9 anos) · Soluções

Quantas dezenas há num número de 3 algarismos?

Observa as placas de 100 e as barras de 10, depois escreve o total de dezenas inteiras (e as unidades restantes).



O Bento, o castor contabilista, junta os troncos de dez em dez: ajuda-o a contar todas as dezenas, mesmo nas centenas!

Exemplo resolvido: 180 = 18 dezenas



1 centena (100) → 10 barras de 10 + 8 barras de 10 = 10 + 8 = 18 dezenas

Atenção: o algarismo das dezenas é 8, mas no total há 18 dezenas em 180!

1 Múltiplos de 10: quantas dezenas inteiras existem em cada número?

1 140 = 14 dezenas

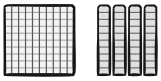

2 230 = 23 dezenas



3 390 = 39 dezenas



4 500 = 50 dezenas



2 Números com unidades soltas: indica o total de dezenas e as unidades

5 245



= 24 dezenas e 5 unidades

6 318



= 31 dezenas e 8 unidades

7 407



= 40 dezenas e 7 unidades

8 682



= 68 dezenas e 2 unidades

Dica do Bento: cada placa de 100 já tem 10 dezenas lá dentro. Conta essas primeiro e junta depois as barras soltas!