Nome : _____ Data : _____

PAPILUMO | 3.º ano (8–9 anos)

Quantas dezenas há num número de 3 algarismos?

Observa as placas de 100 e as barras de 10, depois escreve o total de dezenas inteiras (e as unidades restantes).



O Bento, o castor contabilista, junta os troncos de dez em dez: ajuda-o a contar todas as dezenas, mesmo nas centenas!

Exemplo resolvido: 180 = 18 dezenas



1 centena (100) | 10 barras de 10 | 8 barras de 10

10 + 8 = 18
18 dezenas

Atenção: o algarismo das dezenas é 8, mas no total há 18 dezenas em 180!

1 Múltiplos de 10: quantas dezenas inteiras existem em cada número?

1 **140** = ____ **dezenas**

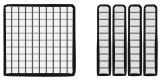

2 **230** = ____ **dezenas**



3 **390** = ____ **dezenas**



4 **500** = ____ **dezenas**



2 Números com unidades soltas: indica o total de dezenas e as unidades

5 **245**



= ____ **dezenas** e ____ **unidades**

6 **318**



= ____ **dezenas** e ____ **unidades**

7 **407**



= ____ **dezenas** e ____ **unidades**

8 **682**



= ____ **dezenas** e ____ **unidades**

Dica do Bento: cada placa de 100 já tem 10 dezenas lá dentro. Conta essas primeiro e junta depois as barras soltas!