Nome : _____ Data : _____

PAPILUMO / 4.º Ano (9–10 anos)

Calcular a área contando quadrados

Conta os quadrados unitários dentro de cada figura (dois meios quadrados fazem 1 quadrado) e escreve a sua área A.



Téo mede a superfície interior: a área conta os quadrados dentro, nunca a borda!

Exemplo resolvido: área vs. perímetro

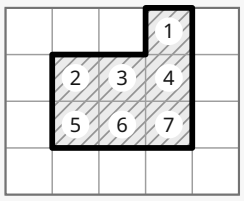

1 quadrado = 1 unidade de área

A área é a superfície tracejada DENTRO da figura, nunca o contorno exterior (perímetro)!

3 × 2 + 1 = 7 unidades de área

Conta os quadrados unitários dentro de cada polígono e escreve a área A

1 Retângulo (5 × 3)

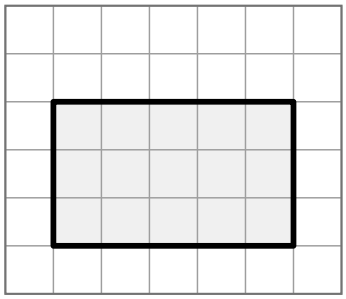

= 1

A = _____ quadrados

2 Forma em L

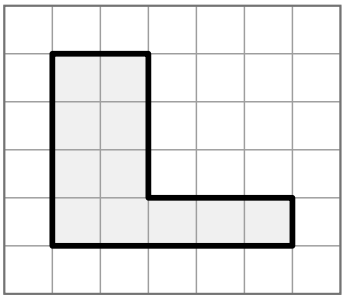

= 1

A = _____ quadrados

3 Forma em T

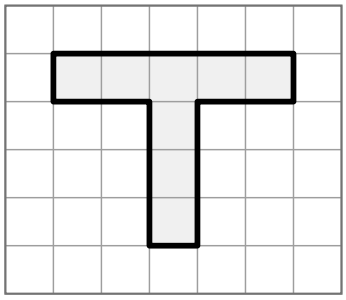

= 1

A = _____ quadrados

4 Escada (4 degraus)

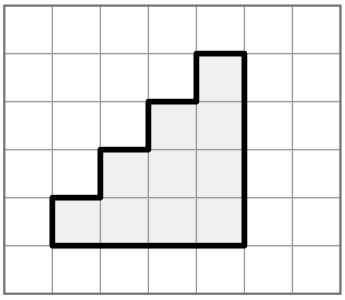

= 1

A = _____ quadrados

5 Casa (pentágono)

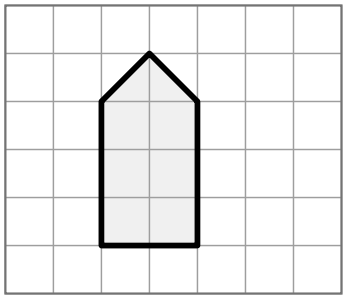

½ + ½ = 1

A = _____ quadrados

6 Hexágono

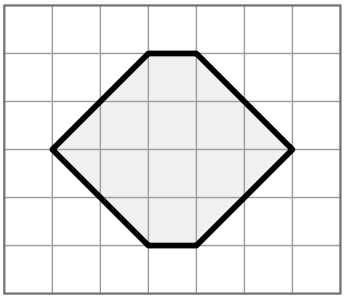

½ + ½ = 1

A = _____ quadrados

Dica do Téo: numera a lápis cada quadrado inteiro dentro da figura e junta os meios quadrados diagonais aos pares para formar unidades.