Nome : _____ Data : _____

PAPILUMO / 4.º ano (9–10 anos)

Figuras mistério por coordenadas

Marca cada ponto (x; y) lendo primeiro o eixo x e depois o eixo y, liga pela ordem com régua e escreve que figura aparece.



Zia a raposa exploradora lê o mapa: avança em x e depois sobe em y!

Exemplo guiado: como marcar o ponto (2; 1)

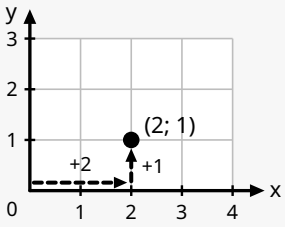

1. Primeiro número x = 2: parte do 0 e avança 2 unidades para a direita.

2. Segundo número y = 1: sobe na vertical 1 unidade para cima.

3. Marca o ponto (2; 1) e liga os pontos pela ordem usando uma régua!

(A) Grelha A · Figura mistério 1: desenha os dois traços em separado e escreve o nome

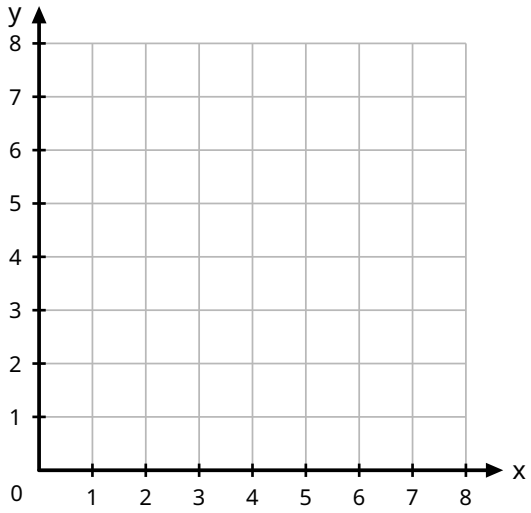

Pontos para marcar e ligar pela ordem:

(1) Traço 1:

(1; 3) (7; 3) (6; 1) (2; 1) (1; 3)

(2) Traço 2:

(4; 3) (4; 8) (7; 4) (1; 4) (4; 7)

Que figura mistério aparece?

(B) Grelha B · Figura mistério 2: liga o contorno fechado pela ordem e escreve o nome

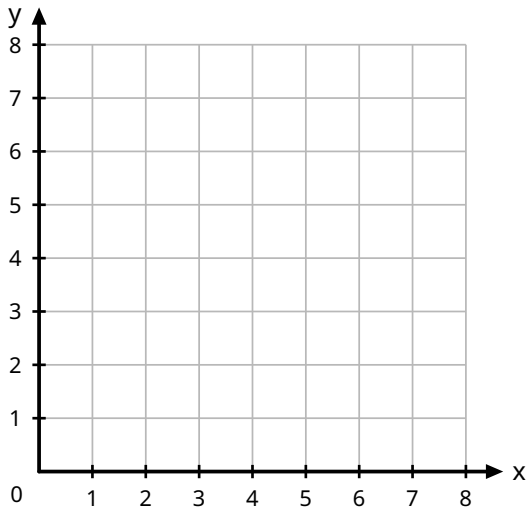

Pontos para marcar e ligar pela ordem:

(1) Contorno fechado:

(2; 2) (6; 2) (7; 6) (5; 4)

(4; 7) (3; 4) (1; 6) (2; 2)

Que figura mistério aparece?

Dica da Zia: faz um pequeno visto a lápis em cada par (x; y) logo após marcares o ponto para não saltares nenhum vértice.